SpaßLernFabrik

Arbeitsblatt zum Video „Plusrechnen mit Zehnerübergang"

Name: _____

Datum: _____

Bis zum nächsten Zehner

Schau dir die Zahl an. Welcher Zehner kommt als Nächstes? Wie viele Plättchen fehlen bis dahin?

So geht's: 17 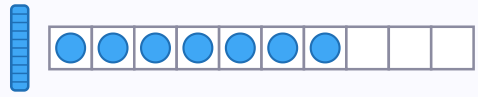

nächster Zehner: 20

es fehlen: 3 Plättchen

1 18 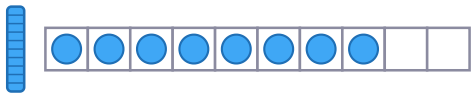

nächster Zehner: ☐

es fehlen: ☐ Plättchen

2 27 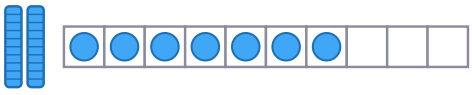

nächster Zehner: ☐

es fehlen: ☐ Plättchen

3 16 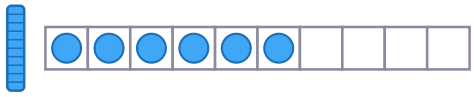

nächster Zehner: ☐

es fehlen: ☐ Plättchen

4 39 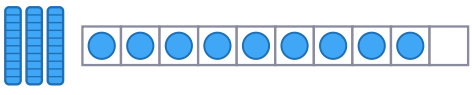

nächster Zehner: ☐

es fehlen: ☐ Plättchen

5 25 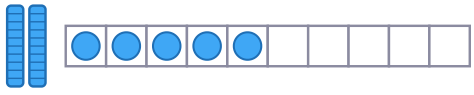

nächster Zehner: ☐

es fehlen: ☐ Plättchen

6 47 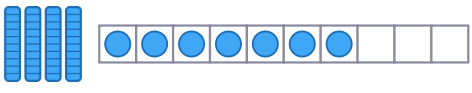

nächster Zehner: ☐

es fehlen: ☐ Plättchen

7 34 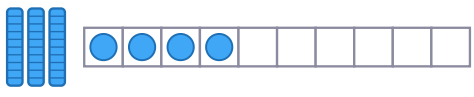

nächster Zehner: ☐

es fehlen: ☐ Plättchen

8 58 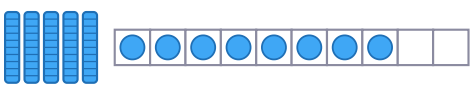

nächster Zehner: ☐

es fehlen: ☐ Plättchen

So ging es mir: ☺ 😐 ☹