SpaßLernFabrik

Arbeitsblatt zum Video „Plusrechnen mit Zehnerübergang"

Name: _____

Datum: _____

Bis zum nächsten Zehner

Schau dir die Zahl an. Welcher Zehner kommt als Nächstes? Wie viele Plättchen fehlen bis dahin?

So geht's: 17 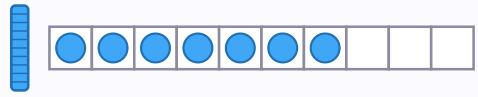

nächster Zehner: 20

es fehlen: 3 Plättchen

1 18 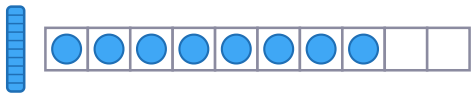

nächster Zehner: ☐

es fehlen: ☐ Plättchen

2 27 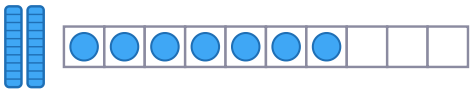

nächster Zehner: ☐

es fehlen: ☐ Plättchen

3 16 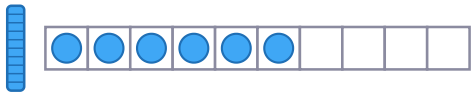

nächster Zehner: ☐

es fehlen: ☐ Plättchen

4 39 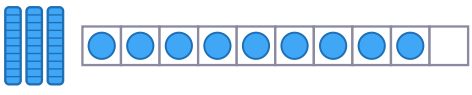

nächster Zehner: ☐

es fehlen: ☐ Plättchen

5 25 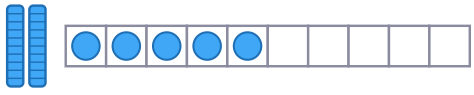

nächster Zehner: ☐

es fehlen: ☐ Plättchen

6 47 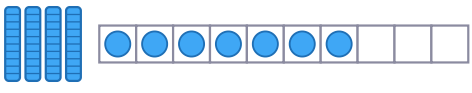

nächster Zehner: ☐

es fehlen: ☐ Plättchen

7 34 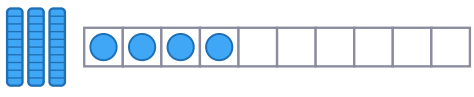

nächster Zehner: ☐

es fehlen: ☐ Plättchen

8 58 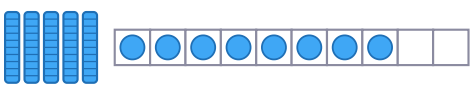

nächster Zehner: ☐

es fehlen: ☐ Plättchen

So ging es mir: ☺ 😐 ☹

SpaßLernFabrik

Arbeitsblatt zum Video „Plusrechnen mit Zehnerübergang"

Name: _____

Datum: _____

Zahlen zerlegen

Wie viele fehlen bis zum nächsten Zehner? Zerlege dann die zweite Zahl: links das, was fehlt (gelb), rechts der Rest (rosa).

So geht's: Bis zur 20 fehlen 2

18 + 8 = 18 + (2 + 6)

1 Bis zur ☐ fehlen ☐

18 + 5 = 18 + (☐ + ☐)

2 Bis zur ☐ fehlen ☐

27 + 8 = 27 + (☐ + ☐)

3 Bis zur ☐ fehlen ☐

16 + 7 = 16 + (☐ + ☐)

4 Bis zur ☐ fehlen ☐

39 + 6 = 39 + (☐ + ☐)

5 Bis zur ☐ fehlen ☐

25 + 9 = 25 + (☐ + ☐)

6 Bis zur ☐ fehlen ☐

47 + 5 = 47 + (☐ + ☐)

7 Bis zur ☐ fehlen ☐

36 + 8 = 36 + (☐ + ☐)

8 Bis zur ☐ fehlen ☐

58 + 6 = 58 + (☐ + ☐)

So ging es mir: ☺ 😐 ☹

SpaßLernFabrik
Arbeitsblatt zum Video „Plusrechnen mit Zehnerübergang"

Name: _____

Datum: _____

Rechnen mit dem Trick ★★★

Zerlege die zweite Zahl. Rechne erst bis zum Zehner, dann den Rest dazu.

So geht's: 18 + 8 = 26

8 → 2, 6

1. 18 + 2 = 20
2. 20 + 6 = 26

1 26 + 7 = ☐

7 → ☐, ☐

1. 26 + ☐ = ☐
2. ☐ + ☐ = ☐

2 15 + 9 = ☐

9 → ☐, ☐

1. 15 + ☐ = ☐
2. ☐ + ☐ = ☐

3 38 + 5 = ☐

5 → ☐, ☐

1. 38 + ☐ = ☐
2. ☐ + ☐ = ☐

4 44 + 8 = ☐

8 → ☐, ☐

1. 44 + ☐ = ☐
2. ☐ + ☐ = ☐

5 57 + 6 = ☐

6 → ☐, ☐

1. 57 + ☐ = ☐
2. ☐ + ☐ = ☐

6 29 + 3 = ☐

3 → ☐, ☐

1. 29 + ☐ = ☐
2. ☐ + ☐ = ☐

7 66 + 9 = ☐

9 → ☐, ☐

1. 66 + ☐ = ☐
2. ☐ + ☐ = ☐

8 48 + 7 = ☐

7 → ☐, ☐

1. 48 + ☐ = ☐
2. ☐ + ☐ = ☐

So ging es mir: ☺ 😐 ☹

SpaßLernFabrik

Arbeitsblatt zum Video „Plusrechnen mit Zehnerübergang"

Name: _____

Datum: _____

Lösungen · Bis zum nächsten Zehner

Schau dir die Zahl an. Welcher Zehner kommt als Nächstes? Wie viele Plättchen fehlen bis dahin?

So geht's: 17 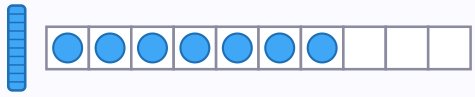

nächster Zehner: 20

es fehlen: 3 Plättchen

1 18 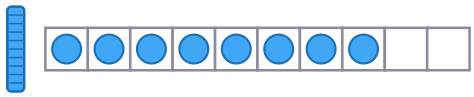

nächster Zehner: 20

es fehlen: 2 Plättchen

2 27 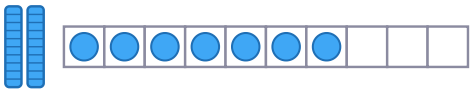

nächster Zehner: 30

es fehlen: 3 Plättchen

3 16 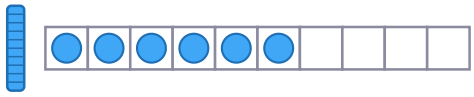

nächster Zehner: 20

es fehlen: 4 Plättchen

4 39 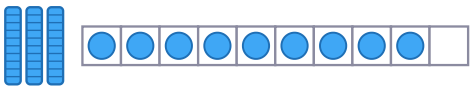

nächster Zehner: 40

es fehlen: 1 Plättchen

5 25 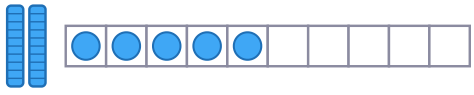

nächster Zehner: 30

es fehlen: 5 Plättchen

6 47 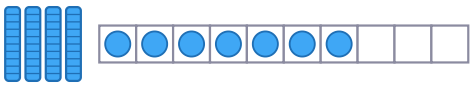

nächster Zehner: 50

es fehlen: 3 Plättchen

7 34 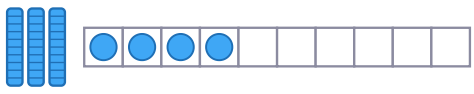

nächster Zehner: 40

es fehlen: 6 Plättchen

8 58 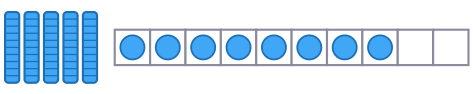

nächster Zehner: 60

es fehlen: 2 Plättchen

So ging es mir: ☺ 😐 ☹

SpaßLernFabrik

Arbeitsblatt zum Video „Plusrechnen mit Zehnerübergang"

Name: _____

Datum: _____

Lösungen · Zahlen zerlegen

Wie viele fehlen bis zum nächsten Zehner? Zerlege dann die zweite Zahl: links das, was fehlt (gelb), rechts der Rest (rosa).

So geht's: Bis zur 20 fehlen 2

18 + 8 = 18 + (2 + 6)

1 Bis zur 20 fehlen 2

18 + 5 = 18 + (2 + 3)

2 Bis zur 30 fehlen 3

27 + 8 = 27 + (3 + 5)

3 Bis zur 20 fehlen 4

16 + 7 = 16 + (4 + 3)

4 Bis zur 40 fehlen 1

39 + 6 = 39 + (1 + 5)

5 Bis zur 30 fehlen 5

25 + 9 = 25 + (5 + 4)

6 Bis zur 50 fehlen 3

47 + 5 = 47 + (3 + 2)

7 Bis zur 40 fehlen 4

36 + 8 = 36 + (4 + 4)

8 Bis zur 60 fehlen 2

58 + 6 = 58 + (2 + 4)

So ging es mir: ☺ 😐 ☹

SpaßLernFabrik
Arbeitsblatt zum Video „Plusrechnen mit Zehnerübergang"

Name: _____

Datum: _____

Lösungen · Rechnen mit dem Trick ★★★

Zerlege die zweite Zahl. Rechne erst bis zum Zehner, dann den Rest dazu.

So geht's: 18 + 8 = 26 (8 → 2, 6)

1. 18 + 2 = 20
2. 20 + 6 = 26

1 26 + 7 = 33 (7 → 4, 3)

1. 26 + 4 = 30
2. 30 + 3 = 33

2 15 + 9 = 24 (9 → 5, 4)

1. 15 + 5 = 20
2. 20 + 4 = 24

3 38 + 5 = 43 (5 → 2, 3)

1. 38 + 2 = 40
2. 40 + 3 = 43

4 44 + 8 = 52 (8 → 6, 2)

1. 44 + 6 = 50
2. 50 + 2 = 52

5 57 + 6 = 63 (6 → 3, 3)

1. 57 + 3 = 60
2. 60 + 3 = 63

6 29 + 3 = 32 (3 → 1, 2)

1. 29 + 1 = 30
2. 30 + 2 = 32

7 66 + 9 = 75 (9 → 4, 5)

1. 66 + 4 = 70
2. 70 + 5 = 75

8 48 + 7 = 55 (7 → 2, 5)

1. 48 + 2 = 50
2. 50 + 5 = 55

So ging es mir: ☺ 😐 ☹