SpaßLernFabrik

Arbeitsblatt zum Video „Zahlenstrahl ablesen"

Name: _____

Datum: _____

Welche Zahl gehört an den Pfeil?

Finde zuerst heraus, wie groß ein Sprung ist. Springe dann wie Fred bis zum Pfeil.

So geht's:

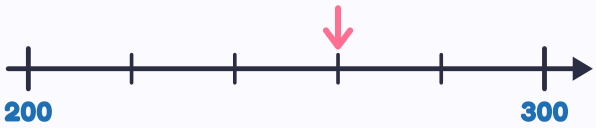

Ein Sprung ist 20

Die Zahl am Pfeil: 260

1



Ein Sprung ist _____

Die Zahl am Pfeil: _____

2

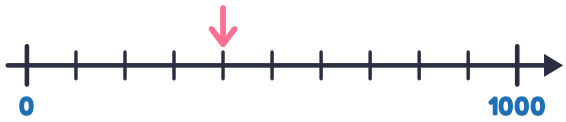

Ein Sprung ist _____

Die Zahl am Pfeil: _____

3

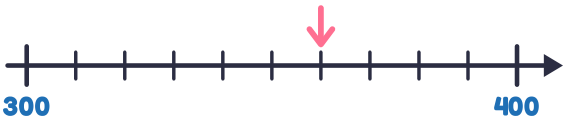

Ein Sprung ist _____

Die Zahl am Pfeil: _____

4

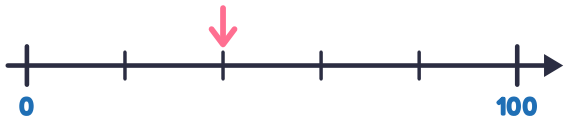

Ein Sprung ist _____

Die Zahl am Pfeil: _____

5



Ein Sprung ist _____

Die Zahl am Pfeil: _____

6

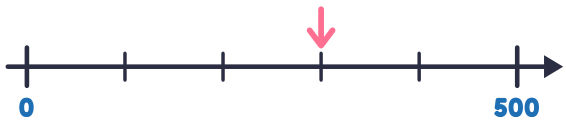

Ein Sprung ist _____

Die Zahl am Pfeil: _____

7

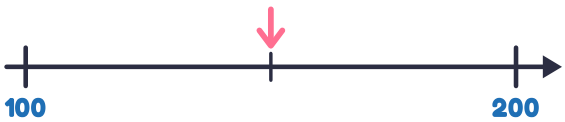

Ein Sprung ist _____

Die Zahl am Pfeil: _____

8

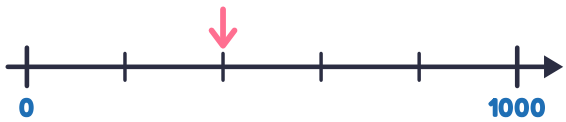

Ein Sprung ist _____

Die Zahl am Pfeil: _____

So ging es mir: ☺ 😐 ☹