SpaßLernFabrik

Arbeitsblatt zum Video „Zahlenstrahl ablesen"

Name: _____

Datum: _____

Wie groß ist ein Sprung?

Zähle die Sprünge, nicht die Striche. Wie weit ist es vom Anfang bis zum Ende? Wie groß ist dann ein Sprung?

So geht's:



Wie weit? 100 Sprünge: 10

Ein Sprung ist 10

1



Wie weit? _____ Sprünge: _____

Ein Sprung ist _____

2



Wie weit? _____ Sprünge: _____

Ein Sprung ist _____

3



Wie weit? _____ Sprünge: _____

Ein Sprung ist _____

4



Wie weit? _____ Sprünge: _____

Ein Sprung ist _____

5



Wie weit? _____ Sprünge: _____

Ein Sprung ist _____

6



Wie weit? _____ Sprünge: _____

Ein Sprung ist _____

7



Wie weit? _____ Sprünge: _____

Ein Sprung ist _____

8



Wie weit? _____ Sprünge: _____

Ein Sprung ist _____

So ging es mir: ☺ 😐 ☹

SpaßLernFabrik

Arbeitsblatt zum Video „Zahlenstrahl ablesen"

Name: _____

Datum: _____

Welche Zahl gehört an den Pfeil?

Finde zuerst heraus, wie groß ein Sprung ist. Springe dann wie Fred bis zum Pfeil.

So geht's:

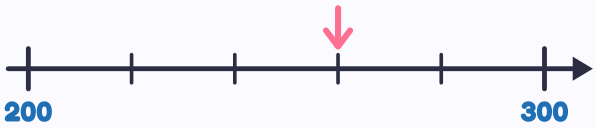

Ein Sprung ist 20

Die Zahl am Pfeil: 260

1



Ein Sprung ist _____

Die Zahl am Pfeil: _____

2

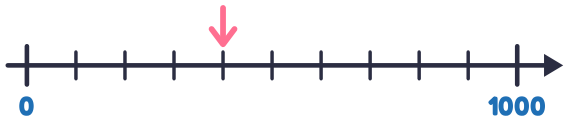

Ein Sprung ist _____

Die Zahl am Pfeil: _____

3

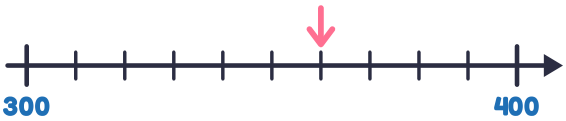

Ein Sprung ist _____

Die Zahl am Pfeil: _____

4

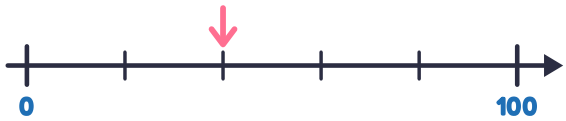

Ein Sprung ist _____

Die Zahl am Pfeil: _____

5



Ein Sprung ist _____

Die Zahl am Pfeil: _____

6

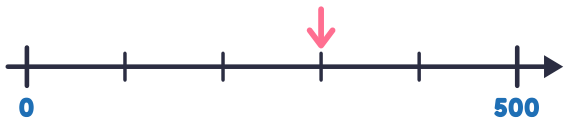

Ein Sprung ist _____

Die Zahl am Pfeil: _____

7

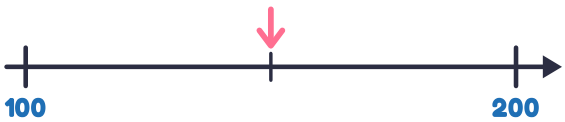

Ein Sprung ist _____

Die Zahl am Pfeil: _____

8

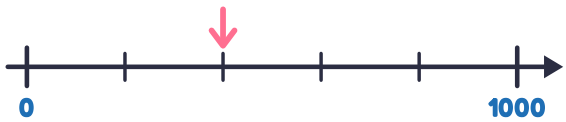

Ein Sprung ist _____

Die Zahl am Pfeil: _____

So ging es mir: ☺ 😐 ☹

SpaßLernFabrik

Arbeitsblatt zum Video „Zahlenstrahl ablesen"

Name: _____

Datum: _____

Der Halbier-Trick ★★★

Bei 4 Sprüngen hilft zweimal halbieren: Suche zuerst die Mitte. Dann weißt du, wie groß ein Sprung ist.

So geht's:



Mitte: 850 Ein Sprung: 25

Die Zahl am Pfeil: 825

1



Mitte: ☐ Ein Sprung: ☐

Die Zahl am Pfeil: ☐

2



Mitte: ☐ Ein Sprung: ☐

Die Zahl am Pfeil: ☐

3



Mitte: ☐ Ein Sprung: ☐

Die Zahl am Pfeil: ☐

4



Mitte: ☐ Ein Sprung: ☐

Die Zahl am Pfeil: ☐

5



Mitte: ☐ Ein Sprung: ☐

Die Zahl am Pfeil: ☐

6



Mitte: ☐ Ein Sprung: ☐

Die Zahl am Pfeil: ☐

7



Mitte: ☐ Ein Sprung: ☐

Die Zahl am Pfeil: ☐

8



Mitte: ☐ Ein Sprung: ☐

Die Zahl am Pfeil: ☐

So ging es mir: ☺ 😐 ☹

SpaßLernFabrik
Arbeitsblatt zum Video „Zahlenstrahl ablesen"

Name: _____

Datum: _____

Lösungen · Wie groß ist ein Sprung?

Zähle die Sprünge, nicht die Striche. Wie weit ist es vom Anfang bis zum Ende? Wie groß ist dann ein Sprung?

So geht's:



Wie weit? 100 Sprünge: 10

Ein Sprung ist 10

1



Wie weit? 10 Sprünge: 10

Ein Sprung ist 1

2



Wie weit? 50 Sprünge: 5

Ein Sprung ist 10

3



Wie weit? 1000 Sprünge: 10

Ein Sprung ist 100

4



Wie weit? 100 Sprünge: 10

Ein Sprung ist 10

5



Wie weit? 100 Sprünge: 5

Ein Sprung ist 20

6



Wie weit? 100 Sprünge: 2

Ein Sprung ist 50

7



Wie weit? 200 Sprünge: 2

Ein Sprung ist 100

8



Wie weit? 100 Sprünge: 5

Ein Sprung ist 20

So ging es mir: ☺ 😐 ☹

SpaßLernFabrik
Arbeitsblatt zum Video „Zahlenstrahl ablesen"

Name: _____

Datum: _____

Lösungen · Welche Zahl gehört an den Pfeil? ★★☆

Finde zuerst heraus, wie groß ein Sprung ist. Springe dann wie Fred bis zum Pfeil.

So geht's:

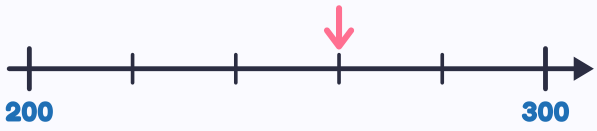

Ein Sprung ist 20

Die Zahl am Pfeil: 260

1



Ein Sprung ist 10

Die Zahl am Pfeil: 70

2

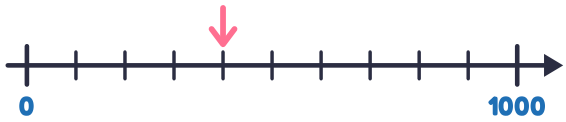

Ein Sprung ist 100

Die Zahl am Pfeil: 400

3

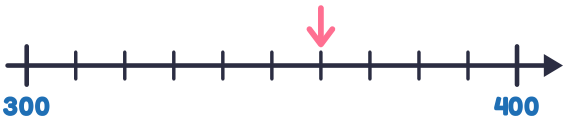

Ein Sprung ist 10

Die Zahl am Pfeil: 360

4

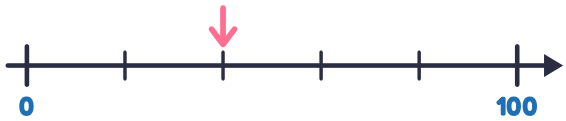

Ein Sprung ist 20

Die Zahl am Pfeil: 40

5



Ein Sprung ist 20

Die Zahl am Pfeil: 680

6

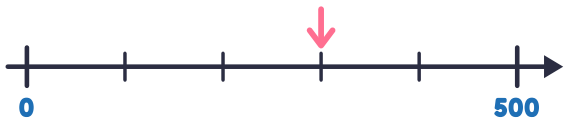

Ein Sprung ist 100

Die Zahl am Pfeil: 300

7

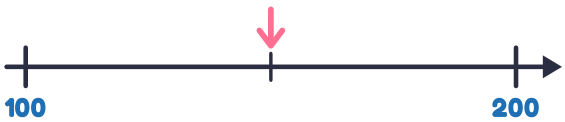

Ein Sprung ist 50

Die Zahl am Pfeil: 150

8

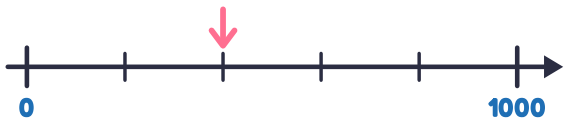

Ein Sprung ist 200

Die Zahl am Pfeil: 400

So ging es mir: ☺ 😐 ☹

SpaßLernFabrik
Arbeitsblatt zum Video „Zahlenstrahl ablesen"

Name: _____

Datum: _____

Lösungen · Der Halbier-Trick ★★★

Bei 4 Sprüngen hilft zweimal halbieren: Suche zuerst die Mitte. Dann weißt du, wie groß ein Sprung ist.

So geht's:



Mitte: 850 Ein Sprung: 25

Die Zahl am Pfeil: 825

1



Mitte: 100 Ein Sprung: 50

Die Zahl am Pfeil: 150

2



Mitte: 350 Ein Sprung: 25

Die Zahl am Pfeil: 375

3



Mitte: 50 Ein Sprung: 25

Die Zahl am Pfeil: 25

4



Mitte: 200 Ein Sprung: 100

Die Zahl am Pfeil: 300

5



Mitte: 650 Ein Sprung: 25

Die Zahl am Pfeil: 625

6



Mitte: 500 Ein Sprung: 250

Die Zahl am Pfeil: 750

7



Mitte: 200 Ein Sprung: 50

Die Zahl am Pfeil: 150

8



Mitte: 600 Ein Sprung: 50

Die Zahl am Pfeil: 650

So ging es mir: ☺ 😐 ☹