SpaßLernFabrik

Arbeitsblatt zum Video „Die verliebten Zahlen"

Name: _____

Datum: _____

Lösungen · Verliebte Zahlen im Zehnerfeld ★★★

Wie viele Plättchen fehlen, bis das Zehnerfeld voll ist? Das ist die verliebte Zahl.

So geht's:

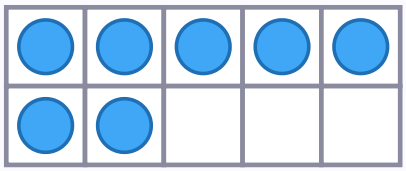

es fehlen: 3

7 ♥ 3

1

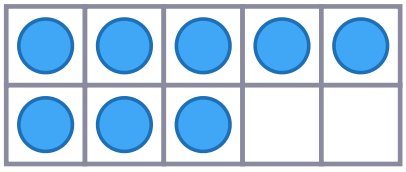

es fehlen: 2

8 ♥ 2

2

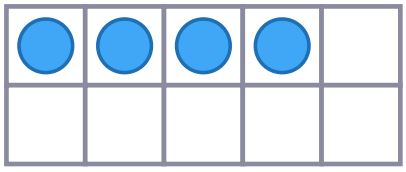

es fehlen: 6

4 ♥ 6

3

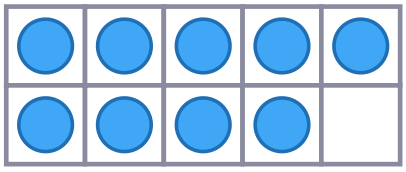

es fehlen: 1

9 ♥ 1

4

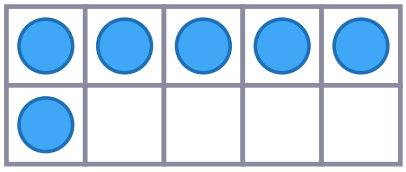

es fehlen: 4

6 ♥ 4

5

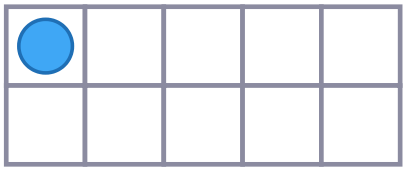

es fehlen: 9

1 ♥ 9

6

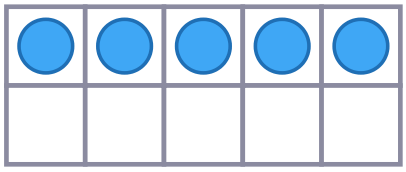

es fehlen: 5

5 ♥ 5

7

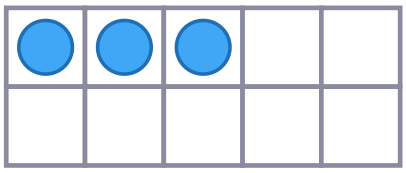

es fehlen: 7

3 ♥ 7

8

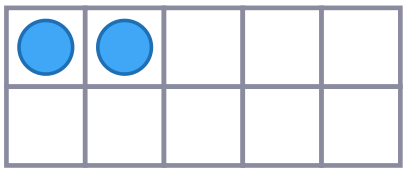

es fehlen: 8

2 ♥ 8

So ging es mir: ☺ 😐 ☹

SpaßLernFabrik

Arbeitsblatt zum Video „Die verliebten Zahlen"

Name: _____

Datum: _____

Lösungen · Wer ist verliebt?

Finde die verliebte Zahl. Zusammen müssen es immer 10 sein.

So geht's: 8 ♥ 2 8 + 2 = 10

1

6 ♥ 4

6 + 4 = 10

2

2 ♥ 8

2 + 8 = 10

3

9 ♥ 1

9 + 1 = 10

4

4 ♥ 6

4 + 6 = 10

5

7 ♥ 3

7 + 3 = 10

6

1 ♥ 9

1 + 9 = 10

7

5 ♥ 5

5 + 5 = 10

8

3 ♥ 7

3 + 7 = 10

So ging es mir: ☺ 😐 ☹

SpaßLernFabrik
Arbeitsblatt zum Video „Die verliebten Zahlen"

Name: _____

Datum: _____

Lösungen · Lücken und Fehlerdetektiv ★★★

Fülle die Lücken, damit es 10 ergibt. Bei der Lupe: Stimmt das Paar? Kreuze an und schreibe das richtige Paar auf.

So geht's: 4 + 6 = 10

1

3 + 7 = 10

2

2 + 8 = 10

3

10 = 5 + 5

4

4 ♥ 5 stimmt? ☐ ja ☒ nein

richtig: 4 ♥ 6

5

8 + 2 = 10

6

10 = 7 + 3

7

3 ♥ 7 stimmt? ☒ ja ☐ nein

richtig: 3 ♥ 7

8

9 + 1 = 10

So ging es mir: ☺ 😐 ☹