SpaßLernFabrik

Arbeitsblatt zum Video „Die verliebten Zahlen"

Name: _____

Datum: _____

Verliebte Zahlen im Zehnerfeld

Wie viele Plättchen fehlen, bis das Zehnerfeld voll ist? Das ist die verliebte Zahl.

So geht's:

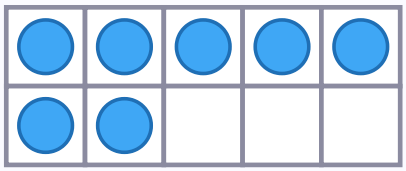

es fehlen: 3

7 ♥ 3

1

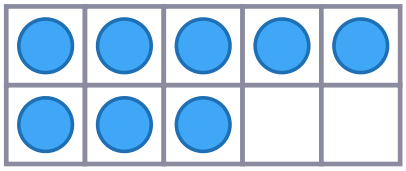

es fehlen: ☐

8 ♥ ☐

2

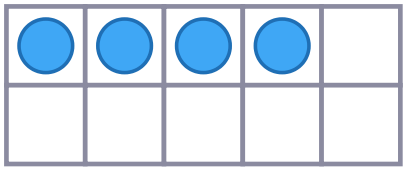

es fehlen: ☐

4 ♥ ☐

3

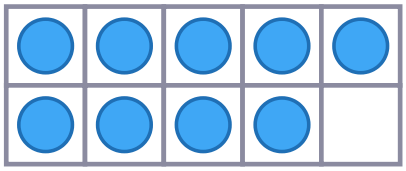

es fehlen: ☐

9 ♥ ☐

4

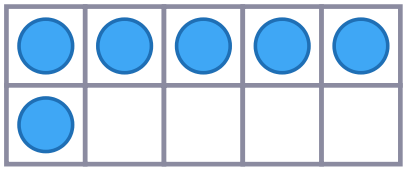

es fehlen: ☐

6 ♥ ☐

5



es fehlen: ☐

1 ♥ ☐

6

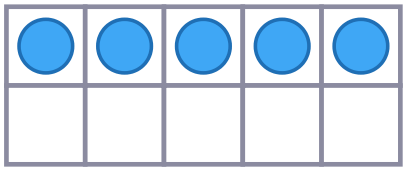

es fehlen: ☐

5 ♥ ☐

7

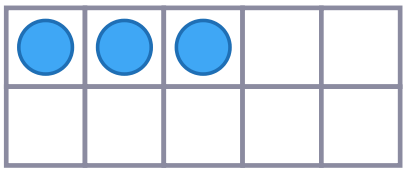

es fehlen: ☐

3 ♥ ☐

8

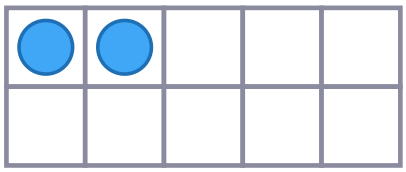

es fehlen: ☐

2 ♥ ☐

So ging es mir: ☺ 😐 ☹