SpaßLernFabrik

Arbeitsblatt zum Video „Minus mit Zehnerübergang"

Name: _____

Datum: _____

Bis zum Zehner zurück

Welcher Zehner liegt davor? Wie viele sind es bis dahin zurück? Tipp: Die Einerzahl verrät es!

So geht's: **23** 

Zehner davor: 20

zurück bis dahin: 3

1 **32** 

Zehner davor: ☐

zurück bis dahin: ☐

2 **43** 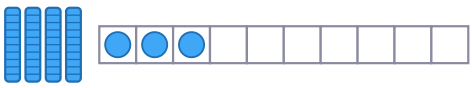

Zehner davor: ☐

zurück bis dahin: ☐

3 **54** 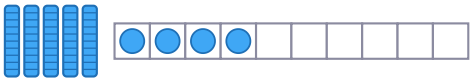

Zehner davor: ☐

zurück bis dahin: ☐

4 **61** 

Zehner davor: ☐

zurück bis dahin: ☐

5 **75** 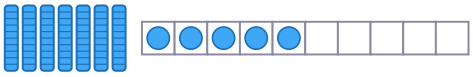

Zehner davor: ☐

zurück bis dahin: ☐

6 **26** 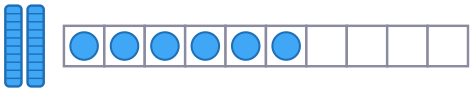

Zehner davor: ☐

zurück bis dahin: ☐

7 **87** 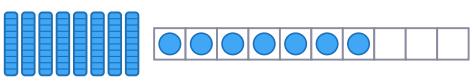

Zehner davor: ☐

zurück bis dahin: ☐

8 **38** 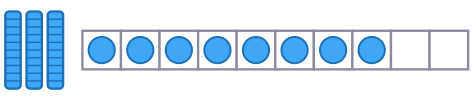

Zehner davor: ☐

zurück bis dahin: ☐

So ging es mir: ☺ 😐 ☹