SpaßLernFabrik

Arbeitsblatt zum Video „Minus mit Zehnerübergang"

Name: _____

Datum: _____

Bis zum Zehner zurück

Welcher Zehner liegt davor? Wie viele sind es bis dahin zurück? Tipp: Die Einerzahl verrät es!

So geht's: **23** 

Zehner davor: 20

zurück bis dahin: 3

1 **32** 

Zehner davor: ☐

zurück bis dahin: ☐

2 **43** 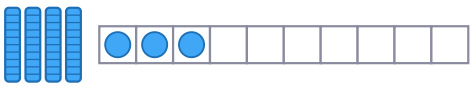

Zehner davor: ☐

zurück bis dahin: ☐

3 **54** 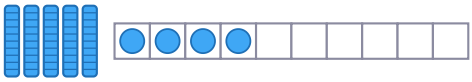

Zehner davor: ☐

zurück bis dahin: ☐

4 **61** 

Zehner davor: ☐

zurück bis dahin: ☐

5 **75** 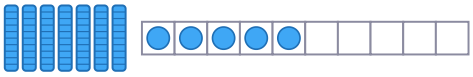

Zehner davor: ☐

zurück bis dahin: ☐

6 **26** 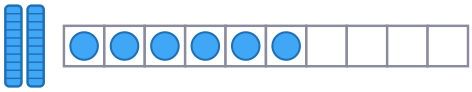

Zehner davor: ☐

zurück bis dahin: ☐

7 **87** 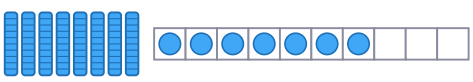

Zehner davor: ☐

zurück bis dahin: ☐

8 **38** 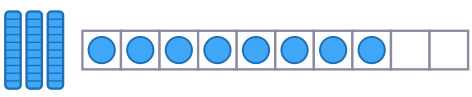

Zehner davor: ☐

zurück bis dahin: ☐

So ging es mir: ☺ 😐 ☹

SpaßLernFabrik

Arbeitsblatt zum Video „Minus mit Zehnerübergang"

Name: _____

Datum: _____

Die zweite Zahl zerlegen

Wie viele sind es zurück bis zum Zehner? Zerlege dann die zweite Zahl: links bis zum Zehner (gelb), rechts der Rest (rosa).

So geht's: Bis zur 30 zurück: 2

32 - 5 = 2 + 3

1 Bis zur ☐ zurück: ☐

43 - 6 = ☐ + ☐

2 Bis zur ☐ zurück: ☐

54 - 7 = ☐ + ☐

3 Bis zur ☐ zurück: ☐

61 - 5 = ☐ + ☐

4 Bis zur ☐ zurück: ☐

75 - 8 = ☐ + ☐

5 Bis zur ☐ zurück: ☐

23 - 6 = ☐ + ☐

6 Bis zur ☐ zurück: ☐

82 - 4 = ☐ + ☐

7 Bis zur ☐ zurück: ☐

36 - 9 = ☐ + ☐

8 Bis zur ☐ zurück: ☐

47 - 8 = ☐ + ☐

So ging es mir: ☺ 😐 ☹

SpaßLernFabrik

Arbeitsblatt zum Video „Minus mit Zehnerübergang"

Name: _____

Datum: _____

Rechnen mit dem Minus-Trick ★★★

Zerlege die zweite Zahl. Rechne erst bis zum Zehner zurück, dann ziehst du den Rest ab.

So geht's:

32 - 5 = 27

(2 | 3)

1. 32 - 2 = 30
2. 30 - 3 = 27

1 44 - 7 = ☐

(☐ | ☐)

1. 44 - ☐ = ☐
2. ☐ - ☐ = ☐

2 52 - 6 = ☐

(☐ | ☐)

1. 52 - ☐ = ☐
2. ☐ - ☐ = ☐

3 71 - 4 = ☐

(☐ | ☐)

1. 71 - ☐ = ☐
2. ☐ - ☐ = ☐

4 63 - 8 = ☐

(☐ | ☐)

1. 63 - ☐ = ☐
2. ☐ - ☐ = ☐

5 35 - 9 = ☐

(☐ | ☐)

1. 35 - ☐ = ☐
2. ☐ - ☐ = ☐

6 91 - 3 = ☐

(☐ | ☐)

1. 91 - ☐ = ☐
2. ☐ - ☐ = ☐

7 26 - 8 = ☐

(☐ | ☐)

1. 26 - ☐ = ☐
2. ☐ - ☐ = ☐

8 84 - 7 = ☐

(☐ | ☐)

1. 84 - ☐ = ☐
2. ☐ - ☐ = ☐

So ging es mir: ☺ 😐 ☹

SpaßLernFabrik

Arbeitsblatt zum Video „Minus mit Zehnerübergang"

Name: _____

Datum: _____

Lösungen · Bis zum Zehner zurück

Welcher Zehner liegt davor? Wie viele sind es bis dahin zurück? Tipp: Die Einerzahl verrät es!

So geht's: **23** 

Zehner davor: 20

zurück bis dahin: 3

1 **32** 

Zehner davor: 30

zurück bis dahin: 2

2 **43** 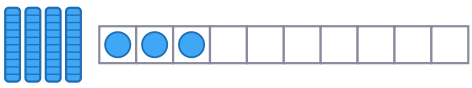

Zehner davor: 40

zurück bis dahin: 3

3 **54** 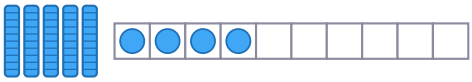

Zehner davor: 50

zurück bis dahin: 4

4 **61** 

Zehner davor: 60

zurück bis dahin: 1

5 **75** 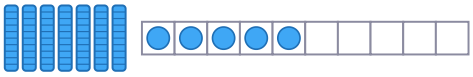

Zehner davor: 70

zurück bis dahin: 5

6 **26** 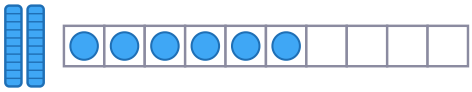

Zehner davor: 20

zurück bis dahin: 6

7 **87** 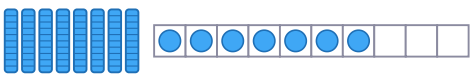

Zehner davor: 80

zurück bis dahin: 7

8 **38** 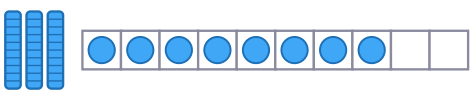

Zehner davor: 30

zurück bis dahin: 8

So ging es mir: ☺ 😐 ☹

SpaßLernFabrik

Arbeitsblatt zum Video „Minus mit Zehnerübergang"

Name: _____

Datum: _____

Lösungen · Die zweite Zahl zerlegen

Wie viele sind es zurück bis zum Zehner? Zerlege dann die zweite Zahl: links bis zum Zehner (gelb), rechts der Rest (rosa).

So geht's: Bis zur 30 zurück: 2

32 − 5 = 2 + 3

1 Bis zur 40 zurück: 3

43 − 6 = 3 + 3

2 Bis zur 50 zurück: 4

54 − 7 = 4 + 3

3 Bis zur 60 zurück: 1

61 − 5 = 1 + 4

4 Bis zur 70 zurück: 5

75 − 8 = 5 + 3

5 Bis zur 20 zurück: 3

23 − 6 = 3 + 3

6 Bis zur 80 zurück: 2

82 − 4 = 2 + 2

7 Bis zur 30 zurück: 6

36 − 9 = 6 + 3

8 Bis zur 40 zurück: 7

47 − 8 = 7 + 1

So ging es mir: ☺ 😐 ☹

SpaßLernFabrik
Arbeitsblatt zum Video „Minus mit Zehnerübergang"

Name: _____

Datum: _____

Lösungen · Rechnen mit dem Minus-Trick ★★★

Zerlege die zweite Zahl. Rechne erst bis zum Zehner zurück, dann ziehst du den Rest ab.

So geht's: 32 - 5 = 27 (5 → 2, 3)

1. 32 - 2 = 30
2. 30 - 3 = 27

1 44 - 7 = 37 (7 → 4, 3)

1. 44 - 4 = 40
2. 40 - 3 = 37

2 52 - 6 = 46 (6 → 2, 4)

1. 52 - 2 = 50
2. 50 - 4 = 46

3 71 - 4 = 67 (4 → 1, 3)

1. 71 - 1 = 70
2. 70 - 3 = 67

4 63 - 8 = 55 (8 → 3, 5)

1. 63 - 3 = 60
2. 60 - 5 = 55

5 35 - 9 = 26 (9 → 5, 4)

1. 35 - 5 = 30
2. 30 - 4 = 26

6 91 - 3 = 88 (3 → 1, 2)

1. 91 - 1 = 90
2. 90 - 2 = 88

7 26 - 8 = 18 (8 → 6, 2)

1. 26 - 6 = 20
2. 20 - 2 = 18

8 84 - 7 = 77 (7 → 4, 3)

1. 84 - 4 = 80
2. 80 - 3 = 77

So ging es mir: ☺ 😐 ☹