SpaßLernFabrik

Arbeitsblatt zum Video „Gewichte: Gramm und Kilogramm"

Name: _____

Datum: _____

Die Küchenwaage ablesen

Suche die Zahlen links und rechts vom Zeiger. Zähle die Abstände dazwischen, nicht die Striche. Ein Abstand ist 50 g.

So geht's:

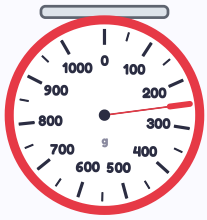

250 g

1



_____ g

2



_____ g

3



_____ g

4



_____ g

5



_____ g

6



_____ g

7



_____ g

8



_____ g

So ging es mir: ☺ 😐 ☹