SpaßLernFabrik

Arbeitsblatt zum Video „Gewichte: Gramm und Kilogramm"

Name: _____

Datum: _____

Was wiegt wie viel?

Vergleiche mit der Gewichte-Treppe: Büroklammer etwa 1 g, Schokolade 100 g, Butter 250 g, Nudeln 500 g, Mehl 1 kg. Kreise das passende Gewicht ein.

So geht's:

Packung Mehl

1 g | 100 g | 1 kg

1 **Tafel Schokolade**

100 g | 10 kg | 1 g

2 **Büroklammer**

1 kg | 1 g | 100 g

3 **Päckchen Butter**

25 g | 2 kg | 250 g

4 **Packung Nudeln**

500 g | 5 g | 5 kg

5 **Gummibärchen**

200 g | 2 g | 2 kg

6 **Apfel**

2 kg | 20 g | 200 g

7 **Kind in Klasse 3**

30 kg | 300 g | 3 kg

8 **Kinderfahrrad**

15 g | 150 g | 15 kg

So ging es mir: ☺ 😐 ☹

SpaßLernFabrik

Arbeitsblatt zum Video „Gewichte: Gramm und Kilogramm"

Name: _____

Datum: _____

Die Küchenwaage ablesen

Suche die Zahlen links und rechts vom Zeiger. Zähle die Abstände dazwischen, nicht die Striche. Ein Abstand ist 50 g.

So geht's:



250 g

1



_____ g

2



_____ g

3



_____ g

4



_____ g

5



_____ g

6



_____ g

7



_____ g

8



_____ g

So ging es mir: ☺ 😐 ☹

SpaßLernFabrik

Arbeitsblatt zum Video „Gewichte: Gramm und Kilogramm"

Name: _____

Datum: _____

Kilogramm und Gramm umrechnen ★★★

Denk dran: 1 kg = 1000 g. Achtung bei kleinen Resten wie 1 kg 50 g: Das sind 1050 g!

So geht's: **2 kg 300 g = 2300 g** 2 kg = 2000 g

1

1 kg 500 g = ____ g

1 kg = ____ g

2

4 kg 750 g = ____ g

4 kg = ____ g

3

1 kg 50 g = ____ g

1 kg = ____ g

4

3 kg 5 g = ____ g

3 kg = ____ g

5

3400 g = ____ kg ____ g

Tipp: 1000 g = 1 kg

6

2800 g = ____ kg ____ g

Tipp: 1000 g = 1 kg

7

5050 g = ____ kg ____ g

Tipp: 1000 g = 1 kg

8

1200 g = ____ kg ____ g

Tipp: 1000 g = 1 kg

So ging es mir: ☺ 😐 ☹

SpaßLernFabrik

Arbeitsblatt zum Video „Gewichte: Gramm und Kilogramm"

Name: _____

Datum: _____

Lösungen · Was wiegt wie viel?

Vergleiche mit der Gewichte-Treppe: Büroklammer etwa 1 g, Schokolade 100 g, Butter 250 g, Nudeln 500 g, Mehl 1 kg. Kreise das passende Gewicht ein.

So geht's:

Packung Mehl

1 g | 100 g | **1 kg**

1 **Tafel Schokolade**

100 g | 10 kg | 1 g

2 **Büroklammer**

1 kg | **1 g** | 100 g

3 **Päckchen Butter**

25 g | 2 kg | **250 g**

4 **Packung Nudeln**

500 g | 5 g | 5 kg

5 **Gummibärchen**

200 g | **2 g** | 2 kg

6 **Apfel**

2 kg | 20 g | **200 g**

7 **Kind in Klasse 3**

30 kg | 300 g | 3 kg

8 **Kinderfahrrad**

15 g | 150 g | **15 kg**

So ging es mir: ☺ 😐 ☹

SpaßLernFabrik

Arbeitsblatt zum Video „Gewichte: Gramm und Kilogramm"

Name: _____

Datum: _____

Lösungen · Die Küchenwaage ablesen

Suche die Zahlen links und rechts vom Zeiger. Zähle die Abstände dazwischen, nicht die Striche. Ein Abstand ist 50 g.

So geht's:



250 g

1



150 g

2



400 g

3



50 g

4



650 g

5



800 g

6



350 g

7



950 g

8



550 g

So ging es mir: ☺ 😐 ☹

SpaßLernFabrik

Arbeitsblatt zum Video „Gewichte: Gramm und Kilogramm"

Name: _____

Datum: _____

Lösungen · Kilogramm und Gramm umrechnen ★★★

Denk dran: 1 kg = 1000 g. Achtung bei kleinen Resten wie 1 kg 50 g: Das sind 1050 g!

So geht's: **2 kg 300 g = 2300 g** 2 kg = 2000 g

1

1 kg 500 g = 1500 g

1 kg = 1000 g

2

4 kg 750 g = 4750 g

4 kg = 4000 g

3

1 kg 50 g = 1050 g

1 kg = 1000 g

4

3 kg 5 g = 3005 g

3 kg = 3000 g

5

3400 g = 3 kg 400 g

Tipp: 1000 g = 1 kg

6

2800 g = 2 kg 800 g

Tipp: 1000 g = 1 kg

7

5050 g = 5 kg 50 g

Tipp: 1000 g = 1 kg

8

1200 g = 1 kg 200 g

Tipp: 1000 g = 1 kg

So ging es mir: ☺ 😐 ☹